INSTITUTO FEDERAL DE ALAGOAS

PROVA TIPO 2

Cargo (Nível Médio – NM):

01. ASSISTENTE EM ADMINISTRAÇÃO

Provas de Português, Raciocínio Lógico, Fundamentos da Administração Pública, Informática e Conhecimentos Específicos

2022

CADERNO DE QUESTÕES

INSTRUÇÕES GERAIS

1. Este **Caderno de Questões** somente deverá ser aberto quando for autorizado pelo(a) Fiscal.
2. Antes de iniciar a prova, confira se o tipo da prova do **Caderno de Questões** é o mesmo da etiqueta da banca e da **Folha de Respostas** de questões objetivas.
3. Ao ser autorizado o início da prova, verifique se a numeração das questões e a paginação estão corretas. Verifique, também, se contém **50 (cinquenta)** questões objetivas com 5 (cinco) alternativas cada. Caso contrário, comunique imediatamente ao Fiscal.
4. O tempo disponível para esta prova é de **4 (quatro) horas**. Faça-a com tranquilidade, mas **controle seu tempo**. Esse **tempo** inclui a marcação da **Folha de Respostas** de questões objetivas.
5. Você somente poderá sair em definitivo do Local de Prova depois de decorridas **2h30min (duas horas e trinta minutos)** do início da aplicação.
6. Na **Folha de Respostas** de questões objetivas, confira seu nome, número do seu documento de identificação, tipo de prova e cargo escolhido.
7. Em hipótese alguma lhe será concedida outra **Folha de Respostas** de questões objetivas.
8. Preencha a **Folha de Respostas** de questões objetivas utilizando caneta esferográfica de tinta azul ou preta. Na **Folha de Respostas** de questões objetivas, preencha completamente o círculo correspondente à alternativa escolhida, conforme o modelo:

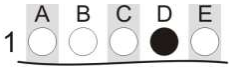

9. Será atribuído o valor ZERO à questão que contenha na **Folha de Respostas** de questões objetivas: dupla marcação, marcação rasurada, emendada ou com "X", não preenchida totalmente ou que não tenha sido transcrita.
10. A correção da prova objetiva será efetuada de forma eletrônica, considerando-se apenas o conteúdo da **Folha de Respostas** de questões objetivas.
11. Caso a Comissão julgue uma questão como sendo nula, os pontos serão atribuídos a todos(as) os(as) candidatos(as).
12. Não será permitida qualquer espécie de consulta.
13. Ao terminar a prova, **devolva** ao(à) **Fiscal** de Sala este **Caderno de Questões**, juntamente com a **Folha de Respostas** de questões objetivas, e **assine a Lista de Presença**.
14. Na sala que apresentar apenas 1 (um/uma) Fiscal, os(as) 3 (três) últimos(as) candidatos(as) somente poderão ausentar-se da sala juntos, após a **assinatura** da **Ata de Encerramento** de provas.
15. **Assine** este Caderno de Questões e **coloque** o número do seu documento de identificação (RG, CNH etc.).

N. do doc. de identificação (RG, CNH etc.):

Assinatura do(a) candidato(a):

INSTITUTO FEDERAL Alagoas
Edital nº127/2022

FUNDEPES
Fundação Universitária de Desenvolvimento de Extensão e Pesquisa

COPEVE
UNIVERSIDADE FEDERAL DE ALAGOAS

PORTUGUÊS

Leia o texto para responder às questões de 1 a 4.

Queda de pelos em cães e gatos

Os pelos de cachorros e gatos têm funções que vão além da estética. Isso porque eles são muito importantes para a saúde desses animais, pois servem como uma barreira de proteção para a pele e ainda ajudam na conservação da temperatura corporal.

Nesse cenário, encontrar pelos em diversas partes da casa e, até mesmo, nas roupas faz parte da rotina dos tutores. Afinal, a renovação da pelagem de ambos os bichos é algo totalmente natural, isto é, acontecerá independentemente de eles terem ou não alguma doença, por exemplo.

Queda de pelos natural

De acordo com a médica veterinária Cinthya Ugliara, da rede clínica Dra. Mei, em intensidade leve a moderada e dependendo da raça, isso não é motivo para preocupação. Também segundo ela, os pelos possuem três fases de crescimento, sendo que, na última delas, ocorre a queda.

Além disso, durante o ano, há dois períodos em que as quedas são mais intensas, mas, ainda assim, são saudáveis e não produzem falhas na pelagem. “Geralmente [acontecem] na primavera e no outono e duram em torno de 30 dias. Isso ocorre porque a pelagem do animal está sendo preparada para o inverno e verão”, explica.

Quando é sinal de alerta

Segundo Cinthya Ugliara, a queda de pelos fora da normalidade pode indicar que o cão ou o gato está com dermatite alérgica à picada de pulgas, outros tipos de alergias (ocasionadas por sarna, dermatite alérgica e fungos) ou, até mesmo, doenças hormonais (hipotireoidismo e hiperadrenocorticismo).

A médica veterinária acrescenta que tal situação, em cães e gatos, também pode ser agravada por deficiências nutricionais, estresse, alergias ou mesmo problemas endócrinos. Quando isso acontece, é de extrema importância que o tutor procure um médico veterinário para investigar e tratar o problema.

Disponível em: <https://recreio.uol.com.br/noticias/pets/queda-de-pelos-em-caes-e-gatos-veja-as-causas-e-como-tratar-25.phtml?utm_source=Feed%20UOL&utm_medium=site&xid=1200>. Acesso em: 10. dez.2022 (adaptado).

QUESTÃO 01

Segundo o texto, é correto afirmar que

A) a queda de pelos em cães e gatos é um processo natural, mas também pode ser sinal de alguma doença.

B) diante de quadro de quaisquer doenças hormonais, deve o tutor procurar um médico veterinário.

C) problemas hormonais são a causa predominante da queda de pelos em cães e gatos.

D) a pelagem dos caninos e felinos é fator de risco para dermatites.

E) a queda de pelos em cães e gatos é sempre patológica.

QUESTÃO 02

Quanto à tipologia e ao gênero textual, respectivamente, é correto afirmar que o texto é uma

A) injunção e uma crônica.

B) narração e uma notícia.

C) narração e uma crônica.

D) descrição e uma resenha.

E) dissertação e uma notícia.

QUESTÃO 03

A linguagem humana é utilizada sempre em prol de um propósito de comunicação. Tendo em vista isso, o texto “Queda de pelos em cães e gatos” apresenta predominantemente a função da linguagem

A) metalinguística, porque centra no código.

B) referencial, porque centra no referente.

C) fática, porque centra na mensagem.

D) emotiva, porque centra no emissor.

E) poética, porque centra no código.

QUESTÃO 04

Dados os seguintes elementos destacados nos excertos,

I. “...pois **servem** como uma barreira de proteção para a pele e ainda **ajudam** na conservação da temperatura corporal”.

II. “...a renovação da pelagem **de ambos** os bichos é **algo** totalmente natural...”.

assinale a alternativa correta quanto à análise linguística dos elementos destacados.

A) As formas verbais “servem” e “ajudam” apresentam sujeito indeterminado; as formas “de ambos” e “algo” funcionam como elementos de coesão lexical por reiteração.

B) As formas verbais “servem” e “ajudam” são casos de oração sem sujeito; as formas “de ambos” e “algo” funcionam como elementos de coesão lexical por substituição.

C) As formas verbais “servem” e “ajudam” apresentam sujeito composto; as formas “de ambos” e “algo” funcionam como elementos de coesão referencial catafórica.

D) As formas verbais “servem” e “ajudam” apresentam sujeito simples; as formas “de ambos” e “algo” funcionam como elementos de coesão referencial anafórica.

E) As formas verbais “servem” e “ajudam” apresentam sujeito elíptico; as formas “de ambos” e “algo” funcionam como elementos de coesão referencial.

QUESTÃO 05

Assinale a alternativa que preenche corretamente as lacunas.

I. ___ exceção da TV Cultura, nenhuma outra emissora disponibiliza intérprete de Libras nos telejornais.

II. ___ 22 anos o Brasil aprovou a Lei de Libras, ___ qual teve grande impacto na vidas dos surdos.

III. A acessibilidade comunicacional em Libras é essencial ___ formação dos surdos em sala de aula.

IV. Quando os surdos eram proibidos de sinalizar, eles o faziam ___ escondidas.

V. Os pesquisadores brasileiros têm dado maior atenção ___ Libras nos últimos tempos.

A) A– À – à – à – às – à
B) À – A – a – à – as – a
C) À – Há – a – a – às – à
D) À – Há – a – à – às – à
E) Há – Há – a – à – às – à

QUESTÃO 06

Dadas as orações,

I. Sempre que estava com raiva, Helena trincava os dentes.

II. Na semana passada, eu atingi meu melhor recorde na natação.

III. O jardineiro cortou as árvores antes que eu chegasse em casa.

IV. Mal entrei na casa, dei de cara com um morcego gigante e assustador.

é(são) classificada(s) como oração(ões) subordinada(s) adverbial(is) temporal(is)

A) I, II, III e IV.
B) I, III e IV, apenas.
C) II e IV, apenas.
D) I e III, apenas.
E) II, apenas.

QUESTÃO 07

Assinale a alternativa que apresenta a concordância verbal em conformidade com a norma culta da língua portuguesa.

A) Nem ele nem João souberam do assalto na rua da faculdade.
B) Nem eu nem você pode pedir demissão do trabalho neste mês.
C) Nem você nem eu posso pedir demissão do trabalho neste mês.
D) Tratam-se de casos omissos os artigos 23 e 24 da lei.
E) O médico foi demitido do hospital fazem três meses.

QUESTÃO 08

A Agência Nacional de Vigilância Sanitária (Anvisa) autorizou hoje (28) a fabricação, no Brasil, de um novo produto medicinal à base de cannabis, o Canabidiol Ease Labs 100 mg/ml. O remédio será fabricado pela Ease Labs Laboratório Farmacêutico sob a forma de solução de uso oral.

Disponível em:<https://veja.abril.com.br/saude/anvisa-autoriza-fabricacao-de-novo-medicamento-a-base-de-cannabis/>. Acesso em: 10. dez. 2022.

O uso da vírgula no trecho "...um novo produto medicinal à base de cannabis, o Canabidiol Ease Labs 100 mg/ml" justifica-se por se tratar de um(a)

A) oração adjetiva restritiva.
B) objeto direto deslocado.
C) agente da passiva.
D) aposto explicativo.
E) vocativo.

QUESTÃO 09

Soneto de separação

Vinicius de Moraes

De repente do riso fez-se o pranto
Silencioso e branco como a bruma
E das bocas unidas fez-se a espuma
E das mãos espalmadas fez-se o espanto.

De repente da calma fez-se o vento
Que dos olhos desfez a última chama
E da paixão fez-se o pressentimento
E do momento imóvel fez-se o drama.

De repente, não mais que de repente
Fez-se de triste o que se fez amante
E de sozinho o que se fez contente.

Fez-se do amigo próximo o distante
Fez-se da vida uma aventura errante
De repente, não mais que de repente.

Disponível em: <https://www.viniciusdemoraes.com.br/pt-br/poesia/poesias-avulsas/soneto-de-separacao>. Acesso em: 10. dez. 2022.

Do ponto de vista semântico, o autor utiliza, no decorrer do texto, um importante jogo de linguagem que encerra um paradoxo no poema. Esse efeito é marcado pela predominância do recurso de linguagem chamado de

A) sinonímia.
B) antonímia.
C) polissemia.
D) homonímia.
E) ambiguidade.

QUESTÃO 10

Na estrofe do poema "Soneto de Separação" de Vinicius de Moraes,

"De repente do riso fez-se o pranto
Silencioso e branco como a bruma
E das bocas unidas fez-se a espuma
E das mãos espalmadas fez-se o espanto".

Há três formas verbais no excerto, as quais se encontram na voz

A) ativa.
B) reflexiva.
C) passiva sintética.
D) passiva analítica.
E) reflexiva recíproca.

RACIOCÍNIO LÓGICO

QUESTÃO 11

Um arquiteto visita diariamente todas as obras em andamento, sob sua responsabilidade, para acompanhar a execução de seus projetos. Durante o planejamento diário do itinerário de visitas, ele verificou que precisa visitar cinco obras pela cidade e que uma delas está localizada na mesma rua de sua casa. De modo a otimizar seu trabalho, ele decide, então, que visitará primeiro essa obra vizinha e depois as demais. De quantas formas diferentes o arquiteto pode organizar a ordem de visita das obras, considerando que ele começará pela obra vizinha de sua casa?

A) 120
B) 60
C) 48
D) 24
E) 20

QUESTÃO 12

Uma indústria está planejando realizar um grande investimento para expandir suas instalações, tendo em vista três novos contratos que podem ser firmados nos próximos dias. Historicamente, a empresa sabe que a chance de conseguir firmar um contrato desse tipo é de 3/4. A diretoria da empresa decidiu que se, pelo menos, um desses contratos for firmado, a empresa realizará o investimento de expansão das instalações. Sabendo que as reuniões para firmar os contratos ocorrerão na próxima semana, qual a probabilidade de a empresa não realizar o investimento?

A) 1/64
B) 1/16
C) 9/64
D) 1/4
E) 3/4

QUESTÃO 13

Assinale a alternativa que apresenta um argumento válido.

A) Todos os defensivos agrícolas utilizados são produtos regulamentados. Todos os produtos regulamentados foram devidamente estudados. Logo, ao menos um defensivo agrícola utilizado foi devidamente estudado.

B) Os produtos orgânicos ainda não estão certificados. Se o produto orgânico estiver certificado, ele poderá ser consumido. Logo, os produtos orgânicos não poderão ser consumidos.

C) Se todas as sementes de melancia germinarem, a plantação necessitará de bastante água. A plantação está precisando de bastante água. Logo, todas as sementes de melancia germinaram.

D) Todos os documentos estão em branco ou foram entregues em dia. Todos os documentos foram entregues em dia. Logo, nenhum documento está em branco.

E) Ao menos um dos sócios da empresa esteve presente na reunião mensal realizada ontem. Logo, algum dos sócios não esteve presente.

QUESTÃO 14

Qual é o próximo número da sequência 2, 5, 28, 257, 3126?

A) 117649
B) 46657
C) 16808
D) 15626
E) 7777

QUESTÃO 15

Um professor de matemática está preocupado com o rendimento de seus alunos na disciplina. Ele acredita que estes podem estar se distraindo com o uso de redes sociais no horário extraclasse e, por isso, estariam dedicando pouco tempo para o estudo da matéria em casa. Para entender melhor o que está acontecendo, esse professor aplicou um questionário para sua turma, composta por vinte e quatro alunos, com o objetivo de verificar quantas horas diárias eles despendiam com o uso de redes sociais. Com as respostas do questionário, o professor elaborou o seguinte gráfico:

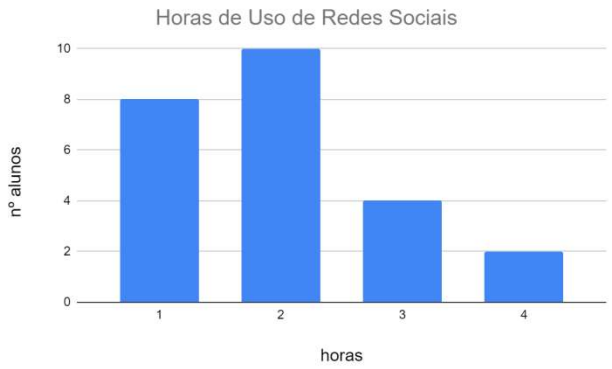

Dadas as afirmativas quanto ao resultado do questionário do professor,

I. A média, a mediana e a moda do conjunto de respostas são iguais.
II. 25% dos alunos ficam mais horas que a média em redes sociais.
III. A chance de um aluno dessa turma, sorteado ao acaso, ter respondido que usa as redes sociais por menos de 2 horas é de mais de 50%.
IV. Se os alunos que responderam que ficam 4 horas reduzissem o uso de redes sociais em uma hora, a mediana do novo conjunto de respostas seria 3.

verifica-se que estão corretas apenas

A) I, II e IV.
B) III e IV.
C) II e IV.
D) I e III.
E) I e II.

FUNDAMENTOS DA ADMINISTRAÇÃO PÚBLICA

QUESTÃO 16

O modelo de administração pública voltado para a qualidade, a transparência dos resultados, o atendimento das demandas sociais, a promoção do exercício da cidadania e a participação ativa da sociedade nas políticas públicas, é denominado de modelo

A) gerencial.
B) econômico.
C) burocrático.
D) meritocrático.
E) patrimonialista.

QUESTÃO 17

Quando a administração pública precisa rever um ato administrativo, sem a necessidade de aplicação de penalidade ao agente que o praticou, pode-se afirmar que o poder exercido foi o

A) regulamentar.
B) hierárquico.
C) de Polícia.
D) normativo.
E) disciplinar.

QUESTÃO 18

Segundo a Lei nº 8.429, de 2 de junho de 1992, corresponde a um ato de improbidade administrativa que atenta contra os princípios da administração pública:

I. deixar de prestar contas quando esteja obrigado a fazê-lo;
II. permitir, facilitar ou concorrer para que terceiro se enriqueça ilicitamente;
III. perceber vantagem econômica para intermediar a liberação ou aplicação de verba pública de qualquer natureza;
IV. agir ilicitamente na arrecadação de tributo ou de renda, bem como no que diz respeito à conservação do patrimônio público.

Dos itens, verifica-se que está(ão) correto(s)

A) I, II, III e IV.
B) II, III e IV, apenas.
C) I e II, apenas.
D) IV, apenas.
E) I, apenas.

QUESTÃO 19

Os serviços públicos em que não é possível determinar a quantidade utilizada por cada cidadão, individualmente, como a iluminação pública, por exemplo, são denominados de

A) impróprios.
B) dominicais.
C) uti universi.
D) uti singuli.
E) próprios.

QUESTÃO 20

De acordo com a Lei Geral de Proteção de Dados Pessoais (LGPD), o tratamento de dados pessoais pelas pessoas jurídicas de direito público deverá ser realizado sob certas condições, cabendo ao poder público:

I. informar as hipóteses em que, no exercício de suas competências, realizam o tratamento dos dados;

II. fornecer informações claras e atualizadas sobre a previsão legal, a origem, os motivos e os responsáveis técnicos pela execução do tratamento;

III. informar as hipóteses de tratamento, obrigatoriamente, no site da autoridade responsável pelo tratamento dos dados;

IV. manter os dados em formato interoperável e estruturado para o uso compartilhado.

verifica-se que está(ão) correta(s)

A) I, II, III e IV.
B) II, III e IV, apenas.
C) II e III, apenas.
D) I e IV, apenas.
E) I, apenas.

QUESTÃO 21

O conceito referente à "qualidade da informação coletada na fonte, com o máximo de detalhamento possível, sem modificações" consta na Lei de Acesso à Informação (LAI) com o nome de

A) informação pessoal.
B) disponibilidade.
C) primariedade.
D) autenticidade.
E) integridade.

QUESTÃO 22

Dadas as afirmativas acerca da decisão coordenada no âmbito do processo administrativo da administração pública federal,

I. Obedecerá aos princípios da legalidade, da eficiência e da transparência.

II. Exige a participação de dois ou mais setores, órgãos ou entidades da administração pública.

III. Aplica-se aos processos administrativos de licitação e aos relacionados ao poder sancionador.

verifica-se que está(ão) correta(s)

A) I, II e III.
B) II e III, apenas.
C) I e III, apenas.
D) II, apenas.
E) I, apenas.

QUESTÃO 23

Segundo a doutrina administrativa, o governo possui funções básicas, são elas:

I. alocativa;
II. distributiva;
III. executiva;
IV. estabilizadora;
V. pacificadora.

Dos itens, verifica-se que estão corretos apenas

A) I, II, III e V.
B) I, IV e V.
C) I, II e IV.
D) III e IV.
E) II e III.

QUESTÃO 24

De acordo com o estatuto do servidor público federal, Lei nº 8.112, de 11 de dezembro de 1990, o retorno ao cargo de servidor aposentado é denominado de

A) aproveitamento.
B) reintegração.
C) readaptação.
D) recondução.
E) reversão.

QUESTÃO 25

Quando a administração pública não cumpre as metas estabelecidas para determinado período ou a prestação de serviço público não se enquadra nos padrões de economicidade e agilidade, entende-se que o princípio administrativo constitucional afetado foi o da

A) eficiência.
B) legalidade.
C) moralidade.
D) produtividade.
E) competitividade.

INFORMÁTICA

QUESTÃO 26

Editores de planilhas eletrônicas, tais como o LibreOffice Calc, são capazes de calcular dados dinamicamente, a partir de fórmulas escritas em suas células. Para indicar a necessidade de realizar um cálculo, o valor da célula deve iniciar com o caractere de igualdade (=). Porém, antes de executar uma fórmula, o editor de planilhas deve analisar a sua corretude e, em caso de problemas, mensagens de erro são apresentadas como resultado. Por exemplo, no LibreOffice Calc (versão 7), o Erro:511, denominado "variável não encontrada", é apresentado caso não sejam fornecidos os parâmetros esperados em algumas fórmulas. Já o Erro:522 é denominado "referência circular". Assinale a alternativa cujo resultado da fórmula apresentaria um erro de referência circular (Erro:522), assumindo que a fórmula foi escrita na célula A6.

A) =MÉDIA(A2:C5;A7:C10)

B) =MÉDIA(A7:AA10)

C) =MÉDIA(B2:C10)

D) =MÉDIA(A2:C10)

E) =MÉDIA(A2:A2)

QUESTÃO 27

Para comprar um PC, há várias informações que devem ser consideradas relativas à configuração do computador. Uma dessas informações é referente à memória de armazenamento que, normalmente, é realizada por um HD ou um SSD. A tecnologia SSD é parte da evolução tecnológica que testemunhamos atualmente na velocidade dos dispositivos de armazenamento, sendo cada vez mais utilizada e acompanhando muitos dos PCs atuais, sejam eles desktops ou laptops. Existem dois tipos principais de dispositivos SSD: o NVMe e o SATA. Assinale a alternativa que melhor descreve as tecnologias SATA e NVMe.

A) NVMe é uma tecnologia que utiliza soquetes PCIe para transmissão de dados e oferece velocidade de transmissão superior aos SSDs SATA.

B) NVMe é uma tecnologia para transmissão de dados utilizada inicialmente em discos magnéticos (HDs) e, hoje, utilizada em cartões microSD e SSDs.

C) NVMe é uma tecnologia para transmissão de dados com formato reduzido e velocidade equivalente aos SSDs SATA, chegando a taxas de até 1 GB/s.

D) NVMe é uma tecnologia para transmissão de dados criada inicialmente para laptops ultrafinos devido ao seu formato reduzido, porém possui velocidade inferior aos SSDs SATA.

E) NVMe é uma tecnologia inicialmente utilizada nos SSDs, mas que também permite acesso rápido à memória principal do computador, voltada ao armazenamento temporário de dados.

QUESTÃO 28

Em algumas organizações comerciais ou até mesmo em certos países, o acesso a determinados sites ou tipos de conteúdo são bloqueados. Os motivos por trás dos bloqueios são diversos, desde o local onde estão publicados (sites), como o fato de tais endereços ou serviços serem considerados inseguros ou suspeitos. Qual ferramenta poderia ser utilizada para realizar as ações de bloqueio, descritas anteriormente?

A) Anti Spyware

B) Antivírus

C) Firewall

D) Cookies

E) Spam

QUESTÃO 29

A figura apresenta uma planilha criada no LibreOffice Calc (versão 7) para registrar as notas de uma turma em duas avaliações. A planilha possui cinco colunas: Matrícula, Nome, Nota1, Nota2 e Média Ponderada. Na última coluna, deseja-se calcular a média ponderada entre as duas notas, atribuindo peso 3 à Nota1 e peso 5 à Nota2.

	A	B	C	D	E
1		*Peso:*	*3*	*5*	
2	**Matrícula**	**Nome**	**Nota1**	**Nota2**	**Media Ponderada**
3	1523	Marta Ribeiro	5	8	6,875
4	2313	José de Souza	10	5	6,875
5	3212	Marcos Santos	5	10	8,125

Assinale a alternativa que contém a fórmula que calcula a média ponderada na célula E5.

A) =SOMARPRODUTO(C5:D5;C$1:D$1)/SOMA(C$1:D$1)

B) =MÉDIA.GEOMÉTRICA(C5;C$1;D5;D$1)

C) =MÉDIA.HARMÔNICA(C5;C$1;D5;D$1)

D) =PONDERAR(C5;C$1;D5;D$1)

E) =MÉDIA(C5;C$1;D5;D$1)

QUESTÃO 30

Sistemas operacionais, tais como o Windows 11, buscam proporcionar facilidades em vista de aumentar a produtividade do usuário. Uma dessas facilidades é a utilização de atalhos do teclado. A figura apresenta um dos atalhos disponíveis no sistema operacional Windows 11.

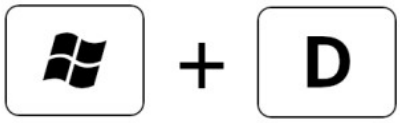

Assinale a alternativa que descreve a ação esperada ao pressionar a combinação de teclas do atalho apresentado.

A) Apaga o arquivo ou a pasta selecionada no Gerenciador de Arquivos, movendo-os para a lixeira.

B) Duplica o arquivo ou pasta que está selecionado no Gerenciador de Arquivos.

C) Divide a tela do Gerenciador de Arquivos ao meio.

D) Desfaz a última ação que foi realizada.

E) Mostra ou oculta a área de trabalho.

CONHECIMENTOS ESPECÍFICOS

QUESTÃO 31

O Instituto Federal de Alagoas (IFAL) foi criado pela Lei n° 11.892, de 29 de dezembro de 2008, e compõe a Rede Federal de Educação Profissional, Científica e Tecnológica. Na estrutura administrativa federal, é considerado uma _____ e faz parte da administração pública _____.

Assinale a alternativa que completa corretamente as lacunas do texto.

A) empresa pública; indireta
B) fundação pública; indireta
C) fundação pública; direta
D) autarquia; indireta
E) autarquia; direta

QUESTÃO 32

Missão do Instituto Federal de Alagoas (IFAL): "Promover educação de qualidade social, pública e gratuita, fundamentada no princípio da indissociabilidade entre ensino, pesquisa e extensão, a fim de formar cidadãos críticos para o mundo do trabalho e contribuir para o desenvolvimento sustentável."

Disponível em: <https://www2.ifal.edu.br/acesso-a-informacao/institucional/arquivos/missao-visao-e-valores-ifal.pdf/view>. Acesso em: 07. dez. 2022.

Dadas as afirmativas sobre a referida missão,

I. faz parte da cultura organizacional;
II. faz parte do processo de comunicação organizacional, já que está disponível no site do IFAL;
III. é de responsabilidade exclusiva das lideranças.

verifica-se que está(ão) correta(s)

A) I, II e III.
B) II e III, apenas.
C) I e II, apenas.
D) III, apenas.
E) I, apenas.

QUESTÃO 33

João, técnico de um Instituto Federal, realizando a avaliação de alguns bens patrimoniais inservíveis, deparou-se com um datashow que não se encontrava em condições de uso. Acionou o pessoal da manutenção, o qual informou que a recuperação do equipamento custaria 40% do seu valor de mercado. Diante dessa informação, João deve classificar o bem como

A) antieconômico.
B) irrecuperável.
C) recuperável.
D) econômico.
E) ocioso.

QUESTÃO 34

Ao ser abordado por sua chefia imediata, um servidor público, que ocupa o cargo de assistente em administração, é questionado sobre suas motivações para uma possível ascensão no setor. Ele afirma que é motivado apenas pela remuneração e estabilidade proporcionadas pelo emprego público. Tomando como base as teorias X e Y propostas por McGregor, em qual delas se enquadra a postura do servidor em questão?

A) Teoria X, porque o compromisso do colaborador com o seu trabalho dependerá das retribuições associadas à execução das suas tarefas.
B) Teoria X, porque as pessoas precisam ser recompensadas materialmente para se esforçarem e produzirem com eficiência e eficácia.
C) Teoria X, porque, na sociedade moderna, o potencial intelectual do ser humano é utilizado apenas de maneira parcial e com grau limitado.
D) Teoria Y, porque, geralmente, o funcionário prefere ser comandado, tem pouca ambição e busca estabilidade e segurança em primeiro lugar.
E) Teoria Y, porque o ser humano tem repulsa pelo trabalho e tende a evitar atividades que exigirão mais responsabilidades e compromisso.

QUESTÃO 35

Dadas as afirmativas quanto ao Patrimônio Público,

I. As terras tradicionalmente ocupadas pelos índios são bens pertencentes à União.
II. Compete ao Ministério da Infraestrutura promover ação civil pública para proteger o patrimônio público e social.
III. Os Estados, o Distrito Federal e os Municípios poderão instituir diferença tributária entre bens e serviços em razão de sua procedência ou destino.

verifica-se que está(ão) correta(s)

A) I, II e III.
B) II e III, apenas.
C) I e II, apenas.
D) III, apenas.
E) I, apenas.

QUESTÃO 36

O estudo de Mintzberg (1973) estruturou os dez papéis administrativos em três categorias básicas: decisorial, interpessoal e informacional. Considerando o referido estudo, assinale a alternativa que associa corretamente dois papéis do administrador à categoria decisorial.

A) Negociação e Resolução de conflitos.
B) Resolução de conflitos e Ligação.
C) Disseminação e Monitoração.
D) Monitoração e Negociação.
E) Ligação e Disseminação.

QUESTÃO 37

As organizações formais legalmente constituídas são compostas por estruturas formais e informais.

1. Estrutura formal	( ) deliberadamente planejada. ( ) representa funções, atividades e cargos. ( ) foco nas pessoas, multiespecialização e generalização.
2. Estrutura informal	( ) fruto da interação social. ( ) sujeita a controle. ( ) representa competência e relações políticas.

Relacione a segunda coluna de acordo com a primeira coluna e assinale a alternativa que contém a sequência correta.

A) 2, 2, 2, 1, 2 e 1
B) 2, 1, 2, 1, 1 e 2
C) 1, 2, 1, 1, 1 e 2
D) 1, 1, 2, 2, 1 e 2
E) 1, 1, 1, 2, 2 e 1

QUESTÃO 38

Considerando a Gestão de Processos, dadas as afirmativas referentes à definição de processo,

I. Ordenação específica englobando teoria e prática com começo, meio e fim definidos de maneira antecipada por clientes.
II. Grupo de componentes interligados com a capacidade de transformar um conjunto de entradas em um conjunto de saídas.
III. Elemento de execução única com tempo de duração determinado, envolvendo o emprego de esforço na criação de algo novo.
IV. Conjunto de atividades realizadas de maneira seqüencial, cuja proposta é produzir bens ou serviços para um público específico.

verifica-se que está(ão) correta(s) apenas

A) I, III e IV.
B) I, II e III.
C) II e III.
D) I e IV.
E) IV.

QUESTÃO 39

Na gestão pública, o Conselho Nacional de Arquivos (Conarq), com o objetivo de elaborar estudos e propor soluções para demandas da política nacional de arquivos públicos e privados, poderá instituir

A) comitê assessor institucional.
B) comissão parlamentar mista.
C) grupo de trabalho assessor.
D) câmara técnica consultiva.
E) junta provisória instrutiva.

QUESTÃO 40

De acordo com a Lei n° 14.133, de 1° de abril de 2021 (Lei de Licitações e Contratos Administrativos), dadas as afirmativas,

I. São princípios observados na aplicação da Lei de Licitações e Contratos Administrativos, entre outros, o planejamento, a segregação de funções e o julgamento objetivo.
II. É possível aplicar margem de preferência em um processo licitatório.
III. A adjudicação é compulsória ao vencedor do certame licitatório.

verifica-se que está(ão) correta(s)

A) I, II e III.
B) I e III, apenas.
C) I e II, apenas.
D) III, apenas.
E) II, apenas.

QUESTÃO 41

Na Administração Financeira e Orçamentária Pública, a receita realizada nos doze meses antecedentes ao mês de referência, excluídas as receitas oriundas de alienação de bens e operações de crédito, é denominada de receita

A) de fonte diversa.
B) corrente líquida.
C) de indenização.
D) de restituição.
E) líquida real.

QUESTÃO 42

Com base na Lei nº 8.159, de 8 de janeiro de 1991, e suas respectivas atualizações, dadas as afirmativas referentes aos documentos produzidos ou recebidos por um Instituto Federal,

I. As decisões do Conselho Superior que foram formalizadas em Resoluções são consideradas arquivos privados.
II. O histórico de um aluno formado no ano de 2000 é considerado um documento permanente.
III. Os documentos digitalizados produzirão os mesmos efeitos legais dos documentos originais, quando observadas as orientações e diretrizes do Conselho Nacional de Arquivos (Conarq).

verifica-se que está(ão) correta(s)

A) I, II e III.
B) II e III, apenas.
C) I e II, apenas.
D) III, apenas.
E) I, apenas.

QUESTÃO 43

Ao elaborar um Ofício seguindo o padrão estabelecido pelo Manual de Redação da Presidência da República, o agente público deverá:

A) mencionar o nome da cidade antes de informar a data, que deverá aparecer grafada em uma linha acima da numeração do ofício e da sigla do setor.

B) evitar a adoção exagerada de negrito, itálico, relevo, dentre outras formas de formatação que tenham impacto na sobriedade do documento.

C) utilizar apenas um dos lados do papel, configurando as margens esquerda e direita de acordo com o padrão estabelecido pela ABNT.

D) utilizar narrativa sucinta e clara das temáticas abordadas, organizando-as de maneira sequencial e visando dar ênfase ao conteúdo principal.

E) imprimir o documento em tinta preta, com timbre e gráficos coloridos, com o objetivo de proporcionar uma visualização mais clara ao leitor.

QUESTÃO 44

Muitas são as ferramentas para a modelagem de processos nas organizações. O quadro apresenta algumas técnicas e suas características.

TÉCNICAS	CARACTERÍSTICAS
1. Cadeia de Valor 2. Raias 3. Business Process Execution Language (BPEL) 4. Event Process Chain (EPC) 5. Systems Dynamics	( ) O objetivo é descrever um processo de negócio que interaja com Web Services. ( ) Semelhante a um fluxograma, diferenciando-se pelo uso de conceitos de operadores lógicos. ( ) Notação que representa como o fluxo de trabalho cruza as unidades organizacionais. ( ) Aplicada com muita frequência em planejamento estratégico. ( ) São diagramas que consideram “atividades na flecha” em vez de “atividade no nó”.

Assinale a alternativa que apresenta a sequência correta associando a técnica à sua característica.

A) 5, 2, 3, 1 e 4

B) 3, 5, 4, 1 e 2

C) 3, 4, 2, 1 e 5

D) 1, 5, 4, 3 e 2

E) 1, 3, 5, 2 e 4

QUESTÃO 45

Dadas as afirmativas a respeito do processo administrativo estruturado nas funções de planejar, organizar, dirigir e controlar,

I. O planejamento promove decisões no futuro que trazem resultados no presente.

II. Organizar, em nível operacional, é estabelecer o desenho organizacional como um todo.

III. Controlar passa pela comparação do padrão planejado com o resultado da execução.

verifica-se que está(ão) correta(s)

A) I, II e III.

B) I e III, apenas.

C) I e II, apenas.

D) III, apenas.

E) II, apenas.

QUESTÃO 46

Dadas as afirmativas sobre a Lei de Diretrizes Orçamentárias (LDO),

I. Compreende as metas e prioridades da administração pública federal.

II. Estabelece as diretrizes de política fiscal e metas, em consonância com a trajetória sustentável da dívida pública.

III. Orienta o Plano Plurianual (PPA).

verifica-se que está(ão) correta(s)

A) I, II e III.

B) II e III, apenas.

C) I e II, apenas.

D) III, apenas.

E) I, apenas.

QUESTÃO 47

No processo administrativo, os planos podem ser classificados em temporários e permanentes. Ao estabelecer as diretrizes que definirão os caminhos para a resolução de um determinado problema, que tipo de plano está sendo executado?

A) Política.

B) Projeto.

C) Orçamento.

D) Cronograma.

E) Procedimento.

QUESTÃO 48

Dentre as tendências e práticas organizacionais modernas, Mintzberg propõe uma classificação na qual cada tipologia se caracteriza pela parte da organização considerada mais relevante para suas operações. Uma empresa que dá enfoque à ideologia e ao respeito às tradições se enquadra no tipo de organização

A) diversificada.

B) profissional.

C) missionária.

D) inovadora.

E) política.

QUESTÃO 49

O Regimento Jurídico Único do Servidor Público Federal prevê que a família do(a) servidor(a) ativo(a) tem direito a receber o auxílio-reclusão em situações específicas. De acordo com a Lei nº 8.112, de 11 de dezembro de 1990, o pagamento do benefício cessa quando

A) o(a) cônjuge do(a) servidor(a) tomar posse em cargo, ainda que comissionado.

B) o(a) beneficiário(a) do(a) servidor(a) é condenado(a) em primeira instância.

C) o(a) servidor(a) for posto(a) em liberdade, ainda que condicional.

D) o(a) dependente menor de idade ingressa no ensino superior.

E) o cargo outrora ocupado pelo(a) servidor(a) for extinto por decreto.

QUESTÃO 50

O macroambiente é um sistema abrangente que envolve as organizações. Qual dos fatores faz parte desse sistema?

A) Regulamentadores, sendo as entidades que determinam limites e restrições às organizações.

B) Consumidores, sendo esses formados por usuários de produtos e serviços da organização.

C) Concorrentes, envolvendo produtores de bens e serviços que competem pelos usuários.

D) Sociais, englobando tradições culturais, ideologias, valores, crenças, mitos, entre outros.

E) Fornecedores, incluindo os supridores de recursos, como mão de obra e serviços.

ATENÇÃO!

O(A) **candidato(a)** está **proibido(a)** de **destacar** esta folha com o **gabarito**, sob pena de **eliminação** do processo. Somente o(a) **Fiscal de Sala** está autorizado(a) a fazer isso no momento da saída do candidato(a) em definitivo do Local de Prova.

Gabarito do Candidato

1	2	3	4	5	6	7	8	9	10	11	12	13	14	15	16	17	18	19	20	21	22	23	24	25
26	27	28	29	30	31	32	33	34	35	36	37	38	39	40	41	42	43	44	45	46	47	48	49	50

EDITAL Nº 127/2022 – INSTITUTO FEDERAL DE ALAGOAS – IFAL

11.1 A COPEVE/UFAL divulgará o Gabarito Preliminar, juntamente com as Provas Objetivas, no endereço eletrônico: www.copeve.ufal.br, na data indicada no **Anexo IV**, a partir das 21h00.

GABARITO OFICIAL

www.copeve.ufal.br

REALIZAÇÃO

UFAL

www.ufal.edu.br

COPEVE
UNIVERSIDADE FEDERAL DE ALAGOAS
Você confia no resultado!

www.copeve.ufal.br

FUNDEPES
Fundação Universitária de Desenvolvimento de Extensão e Pesquisa

www.fundepes.br

INSTITUTO FEDERAL
Alagoas